Problemlösen 2017



Nr.1: Weiß setzt Matt in 1



Nr.2: Weiß setzt Matt in 2



Nr.3: Weiß setzt nicht Matt in 1



Nr.4: Weiß setzt Matt in 2



Nr.5: Weiß setzt Matt in 3



Nr. 6: Wie entsteht diese Stellung in 5 Zügen?

Problemlösen 2017



Bonusaufgabe: Wie entsteht diese Stellung nach dem 5. Zug von Weiß?

Name: _____

1: _____

2: _____

3: _____

4: _____

5: _____

6: _____

_____

_____

7: _____

_____

_____

/14 +

/5 =

Problemlösen 2017

(1) #1 o.A. o.J

1.Da3#

(2) #2 F.Hildebrand 1956

1.Le5! bxa5 [1...bxc5 2.Sc6#; 1...Lb7 2.Txb5#]

2.Sxa6#

(3) kein #1 S. Loyd o.J.

1.Tc6+! [entfesselt den Turm b7]

1...Txh7 2.Sg3#

(4) #2 Y.Rossomakho 1999

1.Df2! [1.cxb5+ Kd5 2.De4+ Kc5 3.Dc4# nur in 3; 1.Th5+ e5 2.Txe5+ d5 3.cxd5# auch nur in 3]

1...h2 [1...bxc4 2.Ke4#; 1...d5 2.Df8#; 1...Sb4 2.Kd2#; 1...Se2 2.Kxe2#]

2.Kd3#

(5) #3 C.Bilfinger 1958

1.Sd3! [1.Sd7? b1S! 2.Se5 patt]

1...b1S [1...b1D 2.Se5 mit Matt]

2.Sc1! dxc1D 3.Td8#

(6) Konstruktion in 5

1.a3 e5 2.Sc3 Lxa3 3.Se4 Lf8 4.Ta5 Ke7 5.Txe5#

(7) BONUS: Konstruktion in 5

Keine Ahnung! Diese Aufgabe konnte ich selbst nicht lösen, ihr überrascht mich mit euren Lösungen.